Натисніть тут, щоб

купити книгу на сайті

або замовляйте за телефоном:

(0352) 51-97-97, (067) 350-18-70,
(066) 727-17-62

Австралія

1. Доповни речення.

Австралія — це _____ материк Землі, розташований у півкулях _____ і _____. Він омивається водами _____ й _____ океанів.

Гори Австралії — це _____. Найвища їх вершина — гора _____.

2. Устав пропущені слова.

Найбільша і головна річка Австралії — _____ _____. Навіть у посушливий період вона _____.

Найбільше озеро Австралії — _____. Вода у ньому _____.

На материку розташована одна країна — _____ _____. Її столиця — місто _____.

3. Допиши прикметники, які характеризують континент Австралію.

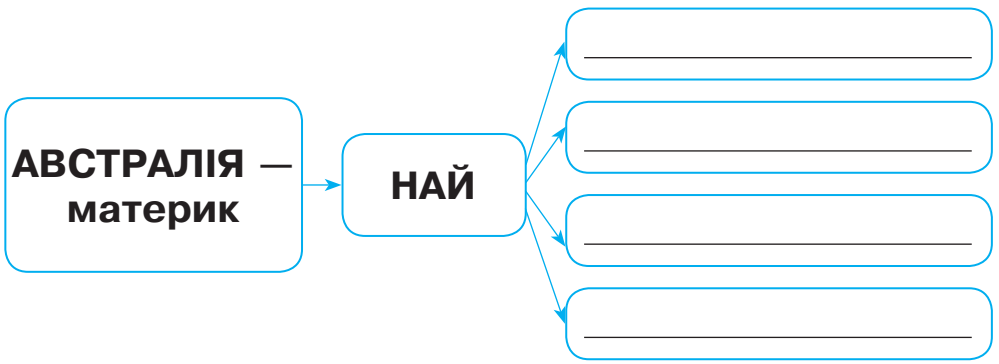

Рослинний і тваринний світ Австралії

1. Познач цифрами в клітинках на́зви природних зон Австралії, починаючи з найбільшої за площею і завершуючи найменшою.

- ☐ зона лісів
- ☐ зона саван
- ☐ зона пустель

2. Скориставшись словами для довідки, цифрами в клітинках познач на́зви зображених рослин і тварин Австралії. Обведи зображення тварин, які є символами Австралії.

☐

☐

☐

☐

☐

☐

☐

☐

☐

Слова для довідки: 1. Пляшкове дерево. 2. Евкаліпт. 3. Ему. 4. Райський птах. 5. Кенгуру. 6. Коала. 7. Качкодзьоб. 8. Єхидна. 9. Динго.

3. За допомогою стрілок склади ланцюги живлення між наведеними назвами організмів.

а) кенгурова трава — кенгуру — динго

б) молюски — водорості — качкодзьоб

в) динго — евкаліпт — коала

4. Підкресли у кожному рядку назву «зайвої» тварини. Поясни свій вибір.

Коала, кенгуру, качкодзьоб.

Динго, качкодзьоб, єхидна.

Африка

1. Доповни речення.

Африка — це _____ материк Землі. За розмірами він _____ серед континентів. Його омивають два океани — _____ і _____.

2. Розв'яжіть кросворд.

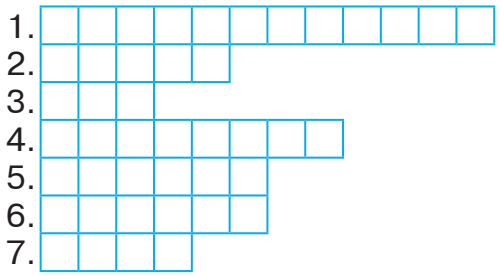

1. Найвища точка Африки.
2. Гори, розташовані на півночі Африки.
3. Найдовша річка Африки і світу.

4. Найбільше озеро Африки.
5. Тепловий пояс, у якому розташована більша частина Африки.
6. Найбільша пустеля Африки.
7. Ділянка біля водойми посеред пустелі, де ростуть рослини.

3. З'єднай на́зви держав Африки з назвами їхніх столиць. Біля назви найбільшої за площею країни континенту намалюй квадрат, найбільшої країни за населенням — коло, а біля назви найдавнішої держави світу — трикутник.

Єгипет •	• Абуджа
Алжир •	• Каїр
Нігерія •	• Алжир

Рослинний і тваринний світ Африки

1. З'єднай на́зви природних зон з їхнім зображенням.



пустеля | екваторіальний ліс | савана

2. Продовж речення.

У вологому екваторіальному лісі ростуть _____

_____

_____.

Рослини саван — _____

_____.

У пустелях де-не-де ростуть _____

_____.

4. Скориставшись словами для довідки, познач відповідними цифрами в клітинках на́зви зображених тварин Африки. Замалюй зеленим кольором клітинки під зображеннями тварин лісу, а жовтим — саван.