Натисніть тут, щоб

купити книгу на сайті

або замовляйте за телефоном:

(0352) 51-97-97, (067) 350-18-70,
(066) 727-17-62

Лічба в межах 5

З’єднай кожну зображену кількість предметів із відповідним числом за зразком.

З’єднай крапки за порядком зростання поданих чисел. Що потрібно зробити, щоб утворився квадрат?



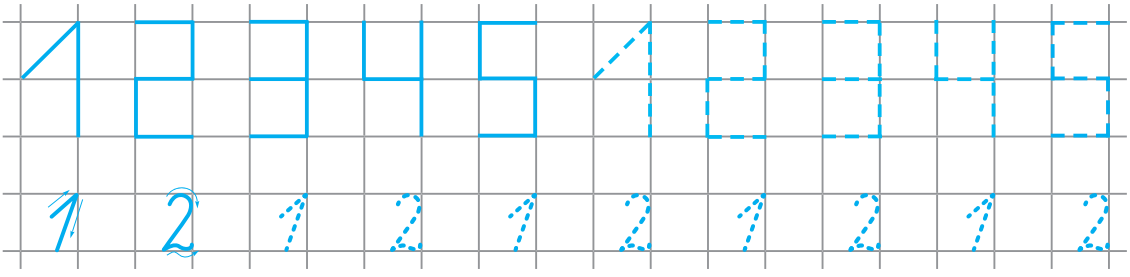

Склад чисел 2, 3, 4, 5

Заповни таблиці за зразком.

2		

3	•	• •	
	• •	•	

4			

5					

Порівняй.

4 > 2

Додавання і віднімання в межах 5

З'єднай картки так, щоб сума предметів, зображених на них, дорівнювала 5.

Було **Прийшло** **Стало**

?

□ + □ = □

Було **Зірвали** **Залишилося**

?

□ − □ = □

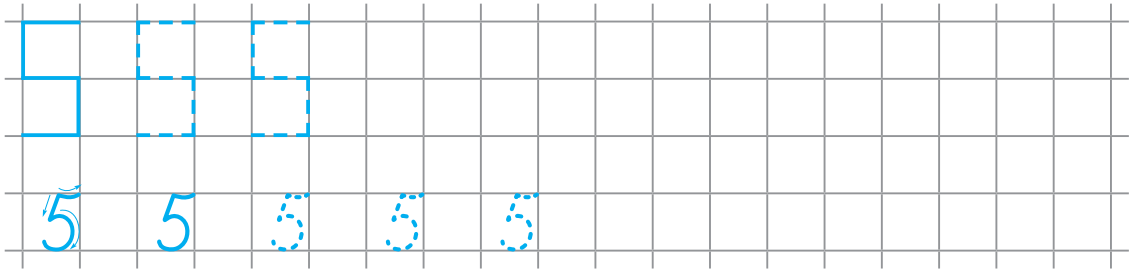

Число і цифра 6

Скільки грибочків сушить білочка? Яка вартість зображених монет? Скільки розігнутих пальців на руках? Зафарбуй цифру 6. Покажи предмети, на яких ти бачиш цю цифру.

Домалюй стільки пелюсток, щоб їх вийшло по шість на кожній квіточці.

З'єднай крапки біля чисел так, щоб утворився шестикутник. Заштрихуй його.



Кількісна і порядкова лічба в межах 6

Обведи малюнки, на яких зображено 6 предметів.
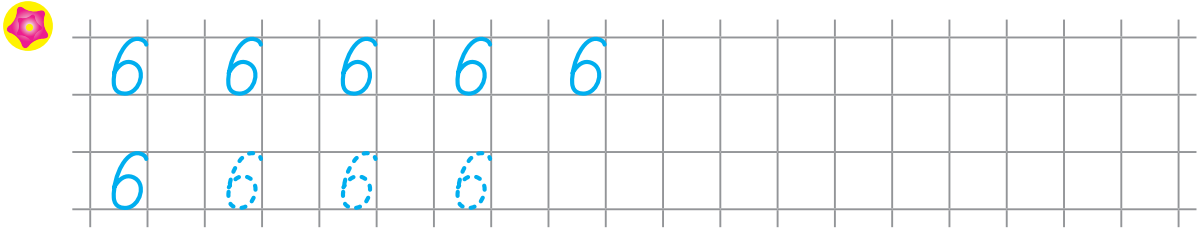
Назви зображені фігури. Зафарбуй кожну шосту.